دورة مرقمة لتأهيل معلمين موجّهين

لمعالجة الصعوبات في الهندسة خلال الساعات الشخصيّة

السنة الدراسية 2012-2013

اللقاء 7 - المهمّة 1

أمامكم ثلاث صيغ لمهمّة المقارنة بين المضلعات.

الأسئلة للنقاش لكل صيغة:

- بماذا تختلف المضلعات وبماذا تتشابه؟
- أيّ شكل هو الشاذ؟ لماذا؟

الصيغة أ

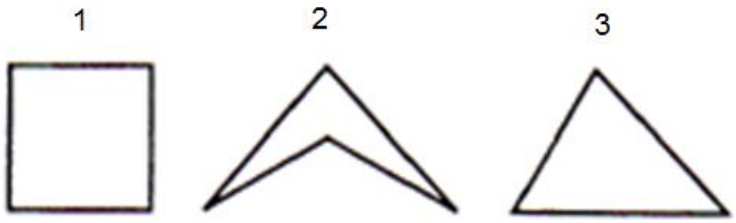

الصيغة ب

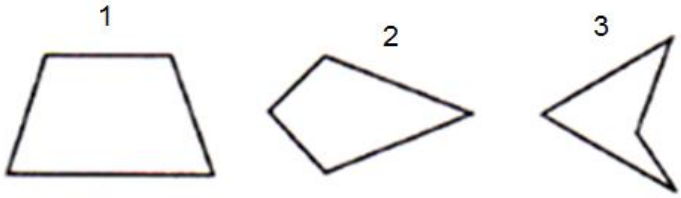

الصيغة ج

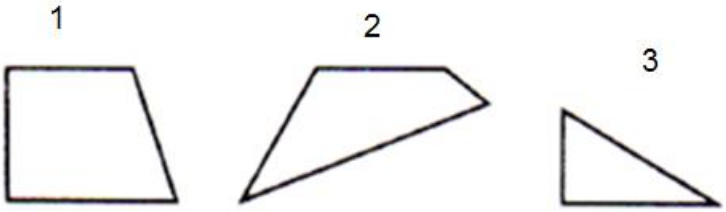

- اختاروا واحدة من ثلاث الصيغ لمهمّة المقارنة بين المضلعات.
- ناقشوا هذه المهمّة في صفكم أو مع مجموعة تلاميذ. اكتبوا في أيّ صف أجري النقاش.
- وثقوا إجابات التلاميذ عن المهمّة.
- تطرّقوا إلى مستويات ڤان هيله للإجابات.